Fiche ……	**Connaissance de géométrie** Périmètres de figures	Pe2

☐ **Entraînement** : Complète les cadres avec les mesures réelles. ***Calcule le périmètre de chaque figure***

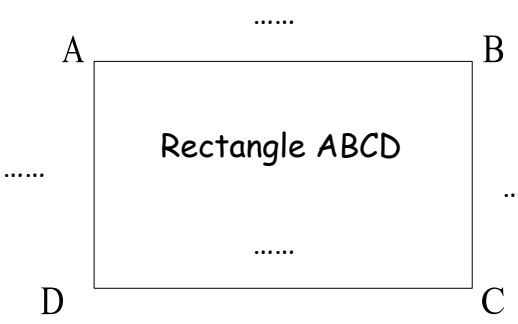

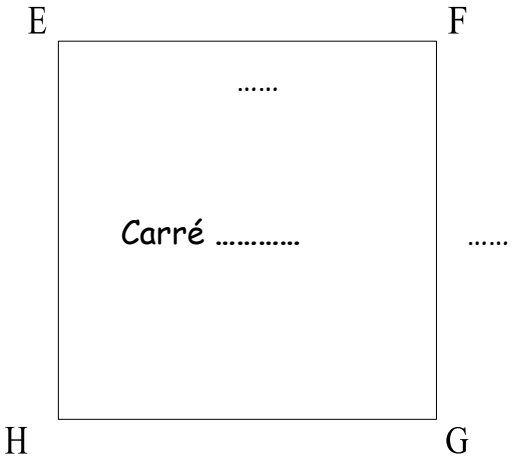

Périmètre du rectangle ABCD
= AB + BC + CD + DA
= 5 + …… + …… + ……
= …… cm = …… mm

Périmètre du carré EFGH
= EF + FG + …… + ……
= …… + …… + …… + ……
= …… cm = …… mm

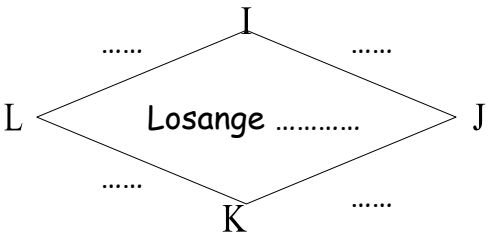

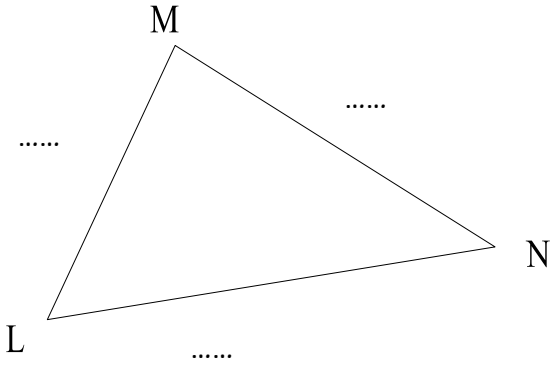

Périmètre du losange ……
= IJ + …… + …… + ……
= …… + …… + …… + ……
= …… cm = …… mm

Périmètre du triangle MLN
= MN + …… + ……
= …… + …… + ……
= …… cm = …… mm

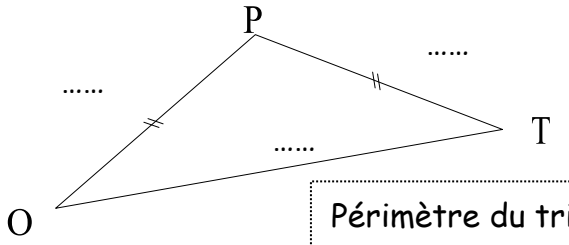

Périmètre du triangle TOP
= …… + …… + ……
= …… + …… + ……
= …… cm = …… mm

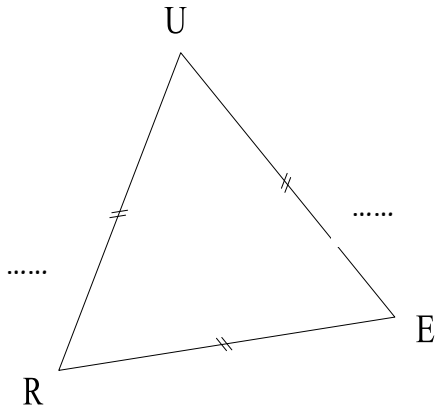

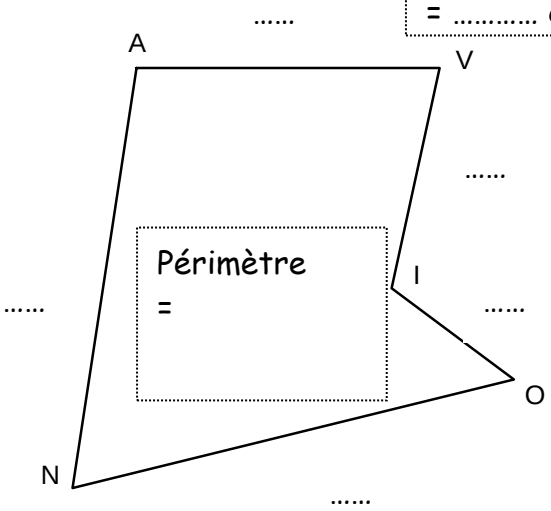

Périmètre du triangle RUE
= …… + …… + ……
= …… + …… + ……
= …… cm = …… mm